Elektronen als Quantenobjekte *Gegenstand dieser Aufgabe sind Überlegungen zur deBroglie-Wellenlänge von Materie. Der Nachweis der Welleneigenschaften massiver Materie war schließlich ein entscheidender Schritt zu einem neuen Verständnis von Materie.Erwin Schrödinger konnte später auf der Grundlage der Welleneigenschaften der Elektronen in Atomen ein sehr präzises Atommodell entwickeln.*

2.1. Beschreibe qualitativ - also ohne Angabe von numerischen Daten - das Experiment zum Nachweis der deBroglie-Wellenlänge, das wir im Unterricht durchgeführt haben.

2.2. Die verwendete Elektronenstrahlröhre kann Elektronen in einem Bereich der Beschleunigungsspannung zwischen $U_{min}=150\text{V}$ und $U_{max}=3500\text{V}$ emittieren. Berechne die Grenzen für die Wellenlänge der Elektronen.

2.3. Ein Staubkorn ($m=0{,}002\,g$) sinkt im Schwerefeld der Erde mit einer konstanten Geschwindigkeit von $v=3\text{mm}/s$. Bestimme seine Wellenlänge.

2.4. Warum hat die deBroglie-Wellenlänge für solche Körper wie in 2.3. keine alltägliche Bedeutung?



Viel Spaß und gutes Gelingen!

2.1.

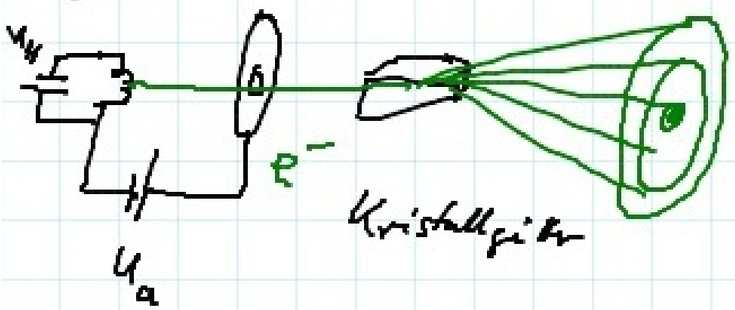

Nachweis d. Welleneig. von e^- durch Beugung am Kristallgitter und Interferenz auf dem Schirm.

2.2. $eU = \frac{1}{2}mv^2 = \frac{p^2}{2m} \overset{\text{(de Broglie)}}{=} \frac{(h/\lambda)^2}{2m} \Rightarrow \lambda = \sqrt{\frac{h^2}{2meU}} = \begin{cases} 0{,}1\,\text{nm} & (150\text{V}) \\ 21\,\text{pm} & (3500\text{V}) \end{cases}$

2.3. $\lambda = \frac{h}{p} = \frac{h}{m \cdot v} = 1{,}1 \cdot 10^{-25}\,\text{m}$

2.4. Beugung und Interferenz gibt es nur, wenn die Gitterkonstante in der Größenordnung der Wellenlänge liegt. So winzige Gitter (10^{-25} m) gibt es aber in der Natur nicht.
(Z.B. max. Größe eines Quarks: 10^{-17} m)

1.6.

a) Berechne die Grenzwellenlänge λ_g , oberhalb der mit der verwendeten Photozelle kein Photostrom messbar sein dürfte.

b) Kann die Photozelle auch infrarotes Licht über Photoeffekt nachweisen?

1.7. In einem zweiten Experiment wurde die Spannung in Abhängigkeit von der Zeit bei drei verschiedenen Abständen LED – Photozelle mit einem Oszilloskop gemessen.

a) Beschreibe den Verlauf der Graphen.

b) Deute den zeitlichen Verlauf der Spannung. Begründe vor allem,

i. warum kein linearer, sondern ein „umgekehrt" exponentieller Anstieg vorliegt;

ii. warum die Graphen für verschiedene Abstände ein unterschiedliches zeitliches Verhalten aufweisen;

iii. warum sich unterschiedliche Grenzspannungen ergeben.

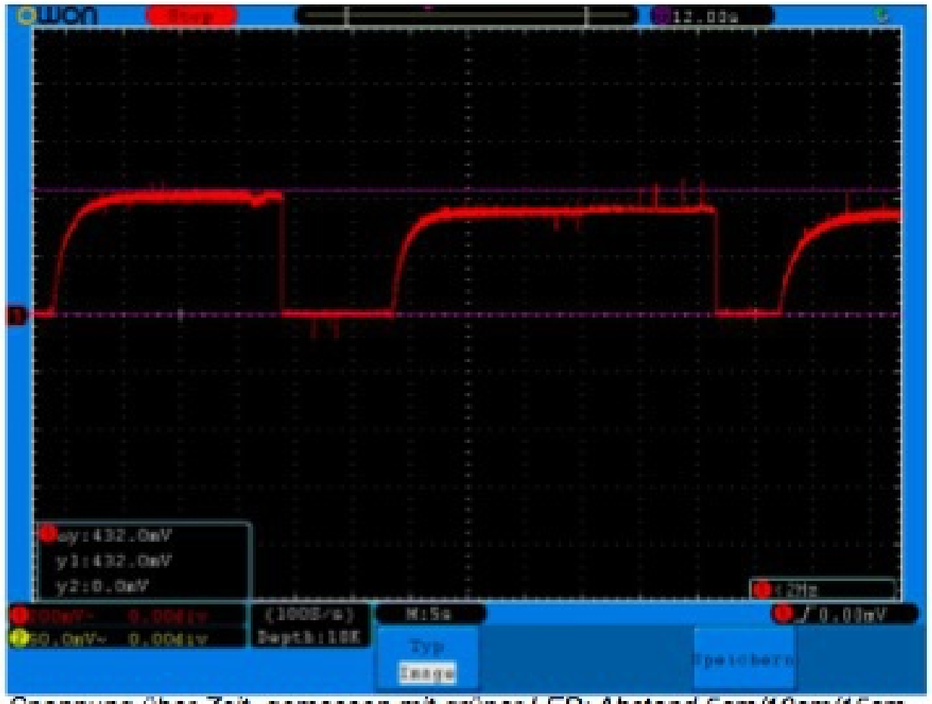

Spannung über Zeit, gemessen mit grüner LED; Abstand 5cm/10cm/15cm

Atomphysik

In der Atomphysik wird das physikalische Verhalten der Atomhülle untersucht, mit entscheidender Bedeutung auch für die chemische Bindung.
(Böse Zungen behaupten auch, die Chemie sei bloß die Physik der Atomhülle ;-))

Weiter wird sich zeigen, dass Impuls und Energie von Atomen gequantelte Größen sind.

Die Entwicklung der Atommodelle Ende des 19. und Anfang des 20. Jahrhunderts führten deshalb zwangsläufig zu einem Bruch mit der klassischen Physik. Die Quantenphysik wurde in der Atomphysik weiterentwickelt, sodass die Erfolge bei der Beschreibung von Atomen ihr endgültig zum Durchbruch verhalfen.

Energieaustausch mit Atomen
Die quantenhafte Emission
Der Franck-Hertz-Versuch



407.1 Franck-Hertz-Versuch mit Neon: Leuchtschichten bei einer Beschleunigungsspannung von 80 V

Anode
Gitter

Kathode

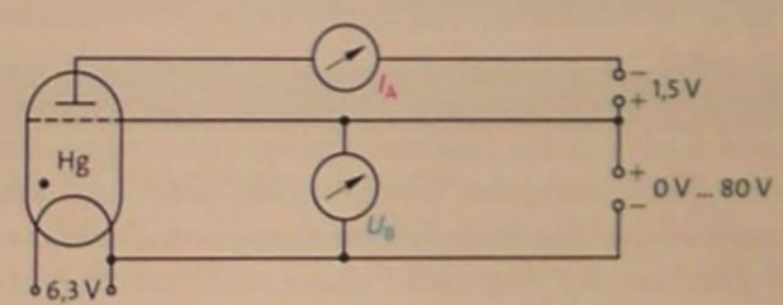

407.2 Schaltbild zum Franck-Hertz-Versuch mit Quecksilberdampf

<-- Dez 2012